www.alm.loxblog.com

باسمه تعالی

سؤالات امتحان نهایی درس: جغرافیا (۲)	رشته: ادبیات و علوم انسانی	ساعت شروع: ۸ صبح	مدت امتحان: ۹۰ دقیقه
سال سوم آموزش متوسطه شیوه سالی – واحدی (۲۰ نمره ای)		تاریخ امتحان: ۱۳۸۱/۰۶/ ۱۰	
دانش آموزان و داوطلبان آزاد شهر تهران در شهریور ماه سال تحصیلی ۸۱ – ۱۳۸۰		اداره سنجش وارزشیابی تحصیلی	

ردیف	سؤالات	نمره
۱	در عبارتهای زیر جای خالی را با کلمات مناسب پر کنید : الف- به مجموعه ای از موجودات زنده و محیط فیزیکی غیر زنده ای که با آن در ارتباط اند، ..... می گویند . ب- مهم ترین و اصلی ترین بخش زنجیرهٔ غذایی ، ..... هستند .	۰,۵
۲	هر یک از توضیحات زیر مربوط به کدام نوع خاک است ؟ الف – در نواحی استوایی در اثر بارش فراوان ، کانی های آن شسته می شود و قرمز رنگ است .( ) ب- به علت یخ بندان شدید و کندشدن عمل تجزیه ، از نظر هوموس فقیر است .( ) ج- خاک سیاه رنگ وبسیار حاصلخیز جنوب روسیه .( )	۰,۷۵
۳	جاهای خالی را در نمودار زیر کامل کنید . 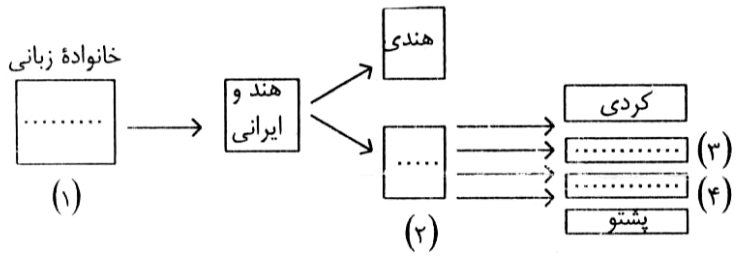 	۱
۴	در عبارتهای زیر جاهای خالی را با کلمات مناسب پر کنید . الف – در پدیده ی پخش یا انتشار به محلی که پدیده در آنجا شکل گرفته ، .....می گویند . ب- مذهب ..... در میان ژاپنی ها پیروان زیادی دارد .	۰,۵
۵	چرا بیشتر جمعیت دنیا در نواحی ساحلی یا در فاصلهٔ اندکی از سواحل زندگی می کنند ؟	۰,۵
۶	عوامل مؤثر در پیدایش سواحل را نام ببرید . (۳ مورد کافی است)	۰,۷۵
۷	دو مورد از فعالیتهای گردشگری (توریستی) ساکنان سواحل را نام ببرید .	۰,۵
۸	چرا میزان آبهای روان در کوهستان زیاد است ؟ دلایل آن را بنویسید.	۰,۷۵

ادامه سؤالات در صفحه دوم

www.alm.loxblog.com

www.alm.loxblog.com

باسمه تعالی

سؤالات امتحان نهایی درس: جغرافیا (۲)	رشته: ادبیات و علوم انسانی	ساعت شروع: ۸ صبح	مدت امتحان: ۹۰ دقیقه
سال سوم آموزش متوسطه شیوه سالی – واحدی (۲۰ نمره ای)		تاریخ امتحان: ۱۳۸۱/۰۶/ ۱۰	
دانش آموزان و داوطلبان آزاد شهر تهران در شهریور ماه سال تحصیلی ۸۱ – ۱۳۸۰		اداره سنجش وارزشیابی تحصیلی	

۹	در نقشه توپوگرافی زیر : نیمرخ AB را رسم کنید . 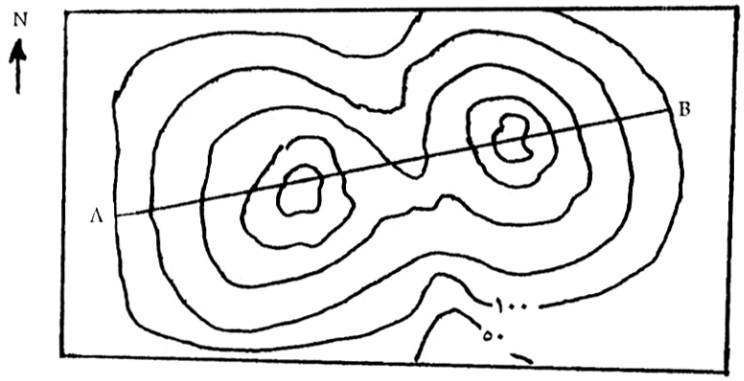	۱
۱۰	فرایند فرسایش طی چه مراحلی صورت می گیرد ؟	۰,۷۵
۱۱	اولین نیروگاه بادی کشورمان در کجا تاسیس شده است ؟	۰,۲۵
۱۲	برای انجام فرسایش بادی در بیابانها چه شرایطی لازم است ؟ نام ببرید .	۰,۷۵
۱۳	از نظر شکل ظاهری برخان ها دارای چه مشخصاتی هستند ؟	۰.۷۵
۱۴	محدودیت ها و مشکلات زندگی در نواحی گرم و خشک را نام ببرید (ذکر۳ مورد کافی است)	۰,۷۵
۱۵	از نظر وسعت آبها و خشکی ها ناحیه ی قطبی شمال و جنوب را با هم مقایسه کنید :	۰,۵
۱۶	علت اصلی سرمای شدید و دائمی در نواحی قطبی چیست ؟	۰,۵
۱۷	چهار کشوری را که ادعای مالکیت بر سرزمینهای قطب شمال دارند نام ببرید.	۱
۱۸	شهر زیبای اسکیموها در کانادا چه نام دارد ؟	۰,۲۵
۱۹	با توجه به تصویر زیر ، فرم هر یک از روستاها را بنویسید : 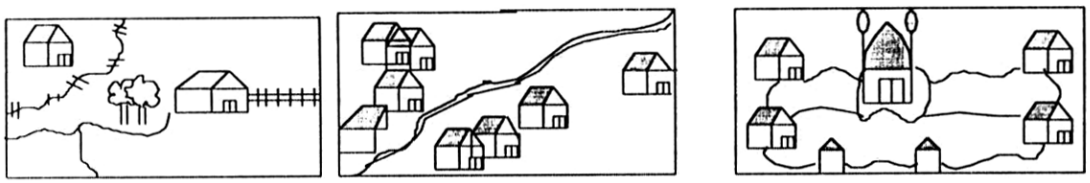 ۱ – (.....) ۲ – (.....) ۳ – (.....)	۰,۷۵

ادامه سؤالات در صفحه سوم

www.alm.loxblog.com

www.alm.loxblog.com

باسمه تعالی

سؤالات امتحان نهایی درس: جغرافیا (۲)	رشته: ادبیات و علوم انسانی	ساعت شروع: ۸ صبح	مدت امتحان: ۹۰ دقیقه
سال سوم آموزش متوسطه شیوه سالی – واحدی (۲۰ نمره ای)		تاریخ امتحان:	۱۳۸۱/۰۶/ ۱۰
دانش آموزان و داوطلبان آزاد شهر تهران در شهریور ماه سال تحصیلی ۸۱ – ۱۳۸۰		اداره سنجش وارزشیابی تحصیلی	

۲۰	انقلاب سبز را تعریف کنید .	۱
۲۱	اصطلاحات زیر را تعریف کنید : الف – شهر نشینی : ب – شهر گریزی :	۱
۲۲	نقش عمدهٔ هر یک از شهرهای زیر را بنویسید . الف- کمبریج ( ) ب- فلورانس ( ) ج - هنک کنگ ( )	۰,۷۵
۲۳	در نمودار ، ویژگی های دیگر حکومت را در جاهای خالی بنویسید . 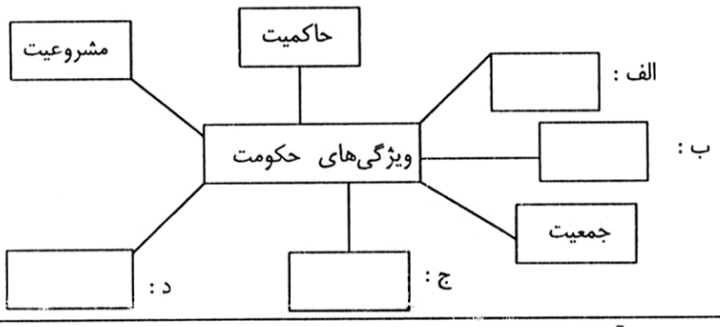	۱
۲۴	الف – خط الراس را تعریف کنید . ب- برای آن مثالی بزنید .	۱
۲۵	چرا شکل فشرده مناسب ترین شکل برای کشورها محسوب می شود ؟ سه دلیل ذکر کنید .	۰,۷۵
۲۶	منظور از اصطلاح « کشت و صنعت »چیست ؟	۱
۲۷	الف- هدف از ایجاد سازمان اوپک چه بود ب- سازمان اوپک برای هر یک از کشورهای عضو چه سهمیه ای در نظر می گیرد ؟ چرا ؟	۰,۷۵
۲۸	چرا در سیستم کشاورزی معیشتی یا سنّتی میزان تولید و سود پائین است ؟ « موفق باشید »	۰,۲۵
	جمع نمرات	۲۰

www.alm.loxblog.com

www.alm.loxblog.com

باسمه تعالی

راهنمای تصحیح سؤالات امتحان نهایی درس: **جغرافیا (۲)**	رشته: **ادبیات و علوم انسانی**	ساعت شروع: ۸ صبح
سال سوم آموزش متوسطه شیوه سالی - واحدی (۲۰ نمره ای)		تاریخ امتحان: ۱۳۸۱/۰۶/ ۱۰
دانش آموزان و داوطلبان آزاد شهر تهران در **شهریور ماه** سال تحصیلی ۸۱ - ۱۳۸۰		**اداره سنجش وارزشیابی تحصیلی**

ردیف	راهنمای تصحیح
۱	الف- اکوسیستم (۰/۲۵) ب- گیاهان سبز (۰/۲۵)
۲	الف - لاتریت (۰/۲۵) ب- پودزول (۰/۲۵) ج- چرنوزیوم (۰/۲۵)
۳	۱- هند و اروپایی ۲- ایرانی ۳ و ٤ - فارسی ، اوستایی (هر مورد ۰/۲۵)
۴	الف- قلب (یا مرکز) ب- شینتو هر مورد (۰/۲۵)
۵	به دلیل شرایط مناسب طبیعی (۰/۲۵) و اقتصادی (۰/۲۵) (هر پاسخ مستدل و منطقی دیگر صحیح است)
۶	رسوب گذاری (۰/۲۵) - فعالیت آتش فشانی(۰/۲۵) - مرجانها (۰/۲۵) - (تغییرات سطح آب دریاها نیز صحیح است)
۷	هتلداری ، اداره تورهای تفریحی ، تأسیسات ورزشی و فرهنگی (ذکر دو مورد هر مورد ۰/۲۵)
۸	۱- بارندگی کوهستان نسبت به نواحی مجاور معمولاً بالاست . ۲- بارش برف در زمستان سبب تغذیه آبهای جاری در فصل گرم است . ۳- تبخیر در کوهستان کم است . (ذکر دو مورد هر مورد ۰/۲۵)
۹	
۱۰	۱- تخریب و متلاشی شدن سنگ ها ۲- حمل مواد تخریب شده ۳- رسوبگذاری (ذکر سه مورد هر مورد ۰/۲۵)
۱۱	اطراف دریاچه سد منجیل (۰/۲۵)
۱۲	شرایط آب و هوایی خشک (۰/۲۵) بادهای شدید (۰/۲۵) مواد سطحی نرم (۰/۲۵)
۱۳	هلالی شکل هستند(۰/۲۵) - دو زائده طویل در جهت باد دارد (۰/۲۵) -ارتفاع آنان بین ۱۰ تا ۲۰ متر است (۰/۲۵) (یا ارتفاع زیادی دارند)
۱۴	کم آبی - دشواری ارتباطات - حرکت ماسه های روان - فقر خاک و فرسایشپذیر بودن محیط - خشکسالی (۳ مورد هر یک (۰/۲۵)
۱۵	در قطب شمال وسعت آبها بیشتر (۰/۲۵) و در قطب جنوب وسعت خشکی ها بیشتر است (۰/۲۵)

www.alm.loxblog.com

www.alm.loxblog.com

باسمه تعالی

راهنمای تصحیح سؤالات امتحان نهایی درس: **جغرافیا (۲)**	رشته: **ادبیات و علوم انسانی**	ساعت شروع: ۸ صبح
سال سوم آموزش متوسطه شیوه سالی – واحدی (۲۰ نمره ای)		تاریخ امتحان: ۱۰ /۰۶/ ۱۳۸۱
دانش آموزان و داوطلبان آزاد شهر تهران در **شهریور ماه** سال تحصیلی ۸۱ – ۱۳۸۰		اداره سنجش وارزشیابی تحصیلی

۱۶	نواحی قطبی انرژی کمی از خورشید دریافت می کنند . (۰/۲۵) (و یا اشعه خورشید در این نواحی مایل است) وجود پوشش برف و یخ در ناحیه موجب بازتاب عمده انرژی تابشی خورشید می شود (۰/۲۵)
۱۷	روسیه (۰/۲۵) نروژ (۰/۲۵) دانمارک (۰/۲۵) ایالات متحده امریکا (۰/۲۵) (کانادا نیز صحیح است).
۱۸	شهر اینوویک (۰/۲۵)
۱۹	میدانگاهی ۲- خطی (یا ردیفی) ۳- متفرق یا پراکنده هر مورد (۰/۲۵)
۲۰	به مجموعه ای از روش های کاربرد ماشین آلات کشاورزی (۰/۲۵) ، انتخاب گونه های پر محصول (۰/۲۵) ، استفاده از کودها (۰/۲۵) و بهبود روش های آبیاری (۰/۲۵) گفته می شود .
۲۱	الف- شهر نشینی : افزایش نسبت جمعیت شهرها و شهرک های یک ناحیه به روستاهای آن (۰/۵) (یا افزایش جمعیت شهرنشینان نسبت به روستانشینان در یک ناحیه یا کشور) ب – شهر گریزی : مهاجرت یا حرکت جمعیت از شهرهای بزرگ به مکان های کوچکتر یا روستاها و مزارع (۰/۵)
۲۲	الف- دانشگاهی (۰/۲۵) ب- موزه ای – هنری (یا موزه شهر) (۰/۲۵) ج- بندری (یا بازرگانی) (۰/۲۵)
۲۳	الف : سرزمین ب: شبکه ارتباطی ج : دولت د : اقتصاد سازمان یافته (جابه جایی پاسخ ها اشکالی ندارد) (ذکر چهار مورد ۱ نمره)
۲۴	الف – خطی که از متصل کردن نوک بلندترین نقاط کوهستانی به یکدیگر شکل می گیرد . (۰/۵) ب – رشته کوه پیرنه ، بین فرانسه و اسپانیا (۰/۵) (رشته کوه آرارات بین ترکیه و ایران و سایر پاسخ های منطقی نیز صحیح است .)
۲۵	۱ـ در کمترین زمان از مراکز کشور به تمام نقاط دسترسی انجام می گیرد . ۲ ـ کمترین مرزهای قابل دفاع را دارند . ۳ ـ احداث جاده و خطوط آهن در چنین کشوری با صرف هزینه کمتری امکان پذیر است .
۲۶	در این سیستم کشت در کنار مزارع ، کارخانه هایی برای تولید و تبدیل و توزیع و بسته بندی محصولات در بازارهای مصرف پدید آمده است . (۱)
۲۷	الف- جلوگیری از کاهش قیمت نفت در بازارهای جهانی (۰/۲۵) ب- در نظر گرفتن سهمیه برای تولید و صدور نفت (۰/۲۵)، زیرا موجب شده از عرضهٔ بیش از تقاضای این ماده جلوگیری شود. (۰/۲۵)
۲۸	چون بیشتر از نیروی انسانی و ابزار ابتدایی استفاده می شود (۰/۲۵) (سایر پاسخ های معتدل و منطقی صحیح است)
	همکار محترم ضمن عرض خسته نباشید « به پاسخهای مشابه ، معقول و مستدل خواهشمند است نمره منظور فرمائید .» **با تشکر**

www.alm.loxblog.com